# 令　和　8　年　度

## 一関修紅高等学校一般入学者選抜学力検査問題

## 第　3　回

（1 月 28 日　11 時 20 分～ 12 時 10 分）

# 社　　会

## （注　　意）

1　「始めなさい。」の指示があるまで，問題を見てはいけません。

2　答えは，必ず解答用紙の「答」の欄に記入しなさい。問題用紙に書いても無効です。

3　答えは，記号・ことば・文などで書くようになっていますから，問題をよく読んで，定められたとおりに書きなさい。

4　書き誤りをしたときは，きれいに消してから，新しい答えを書きなさい。はっきりしない答えを書いた場合は，誤りとされます。

5　解答用紙の※印欄（得点の欄）には，記入してはいけません。

6　時間内に書き終わっても，その場に着席していなさい。

7　「やめなさい。」の指示があったら，直ちに書くのをやめ，解答用紙を机の上に置きなさい。

8　問題用紙は，表紙を含めないで10ページで，問題は８題です。

**1**　次の略地図は緯線と経線が直角に交わる地図で，緯線と経線はそれぞれ15度間隔で引かれています。これを見て，あとの(1)，(2)の問いに答えなさい。（３点×２）

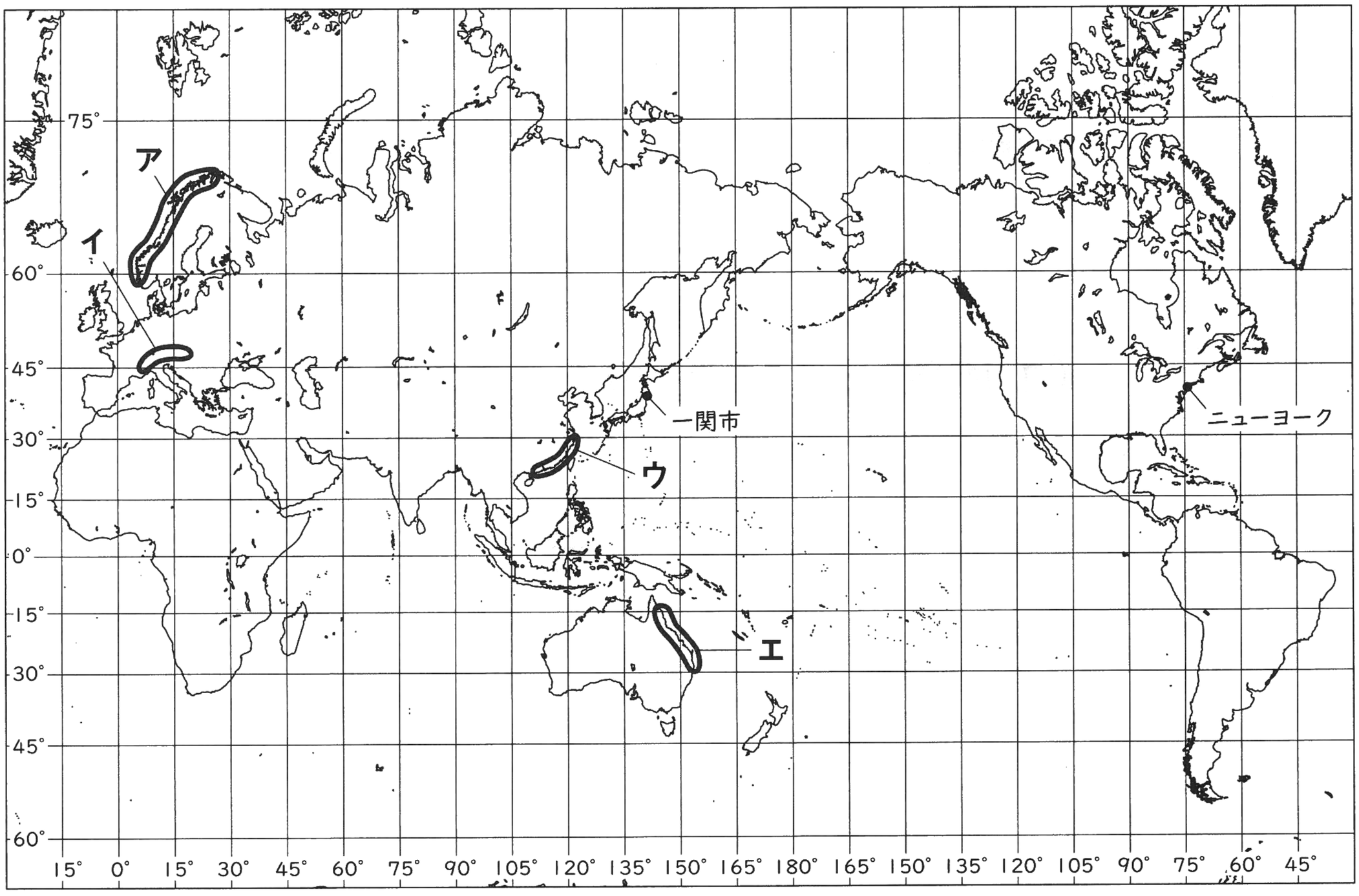


(1)　次の文章は，ある地形がみられる地域について述べたものです。この文章に最もあてはまる地域を，略地図中の◯で示したア～エのうちから**一つ**選び，その記号を書きなさい。

> この地域では，氷河によってけずられたU字形の谷に海水が入りこんでできた，細長く奥行きのある地形がみられる。この地形がおりなす景色は雄大で美しいため観光資源としても重要で，世界各国から毎年おおぜいの観光客が訪れる。

(2)　ニューヨークで開催されるＭＬＢ（メジャーリーグベースボール）の試合がテレビで生中継され，同時に日本でも放映されることになりました。一関市に住むしょうたさんは，自宅でその試合をテレビ観戦しようと考えています。試合開始時，一関市が４月20日午前９時のとき，現地のニューヨークは何月何日何時ですか。次のア～エのうちから最も適当なものを**一つ**選び，その記号を書きなさい。なお，一関市（日本）の標準時子午線は東経135度，ニューヨークの標準時子午線は西経75度で，サマータイムは考えないものとします。

**ア**　４月19日午後７時　　**イ**　４月19日午後11時
**ウ**　４月20日午後７時　　**エ**　４月20日午後11時

## 2　次のA～Dの文を読んで，あとの(1)～(4)の問いに答えなさい。

A　中大兄皇子は中臣鎌足らとともに蘇我蝦夷・入鹿親子を倒し，中国から帰った留学生らの協力も得て，①政治の改革を始めた。

B　摂政や関白という天皇を補佐する職に就いて政治を動かす摂関政治を行った藤原氏は，朝廷のおもな役職を一族で占め，藤原道長とその子の頼通のころに最も栄えた。

C　建武の新政後，足利尊氏は京都に新たな天皇を立て，後醍醐天皇も吉野（現在の奈良県）に逃れて正統な天皇であると主張したので，二つの朝廷が並び立つことになった。

D　朝廷から関白に任命された②豊臣秀吉は全国に停戦を命じ，その命に従わない大名を降伏させるなどし，奥州（東北地方）も服従させて，全国統一を実現した。

(1)　A中の下線部①について，この改革を何といいますか。**ことば**で書きなさい。（４点）

(2)　Bについて，次のア～エのうち，このころつくられたものとして最も適当なものはどれですか。**一つ**選び，その記号を書きなさい。（３点）

**ア**



鹿苑寺金閣

**イ**



法隆寺の五重塔

**ウ**



東大寺の大仏

**エ**



平等院鳳凰堂

(3)　Cについて，次のア～エのうち，このころの社会のようすについて述べたものとして最も適当なものはどれですか。**一つ**選び，その記号を書きなさい。（３点）

**ア**　政治のしくみが整わず社会は混乱し，悪党とよばれる集団が市や港町などを襲撃した。

**イ**　農民は租や調などの税や労役の負担を課され，その重さから他の土地に逃亡する者もいた。

**ウ**　争乱のなか，朝廷は国ごとに守護を，荘園や公領ごとに地頭を設置することを認めた。

**エ**　百姓は，五人組とよばれる制度の下，年貢の未納や犯罪には連帯で責任を負わされた。

(4)　Dについて，下線部②の人物は全国統一の一環としてさまざまな政策を行いました。そのうちの一つに，右の資料に描かれているのと同じような政策があります。その政策について，次の条件１，条件２に従って，簡単に**説明**しなさい。（４点）

【条件１】政策の**名称**を明らかにすること。

【条件２】政策の内容について，「**石高**」の語句を用いて説明すること。

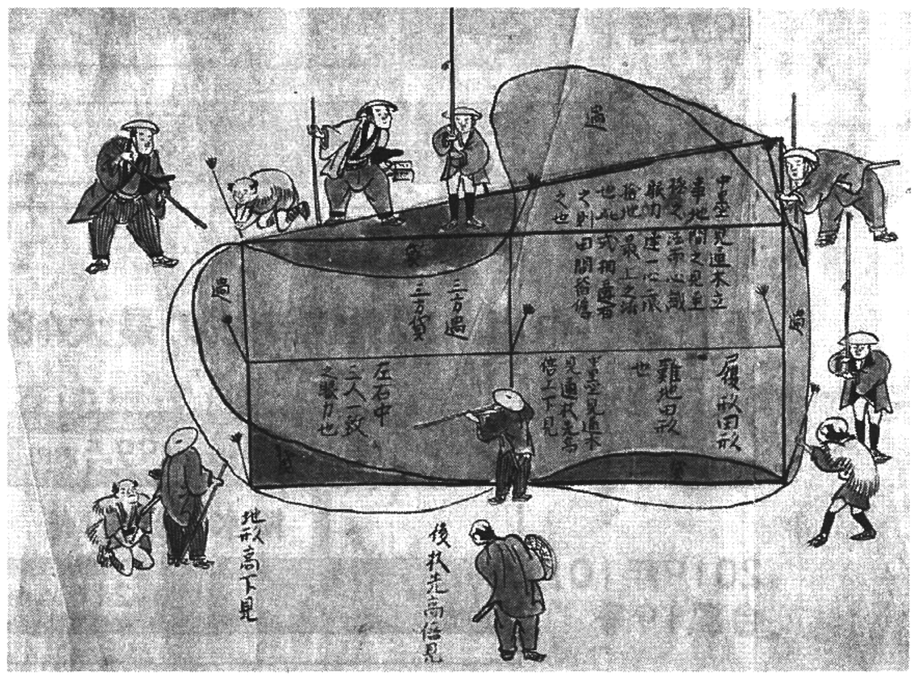

※この資料は江戸時代の同様の政策のようすを描いたものである。

**3**　右の略地図は，関東地方を中心に示したものです。これを見て，次の(1)～(3)の問いに答えなさい。

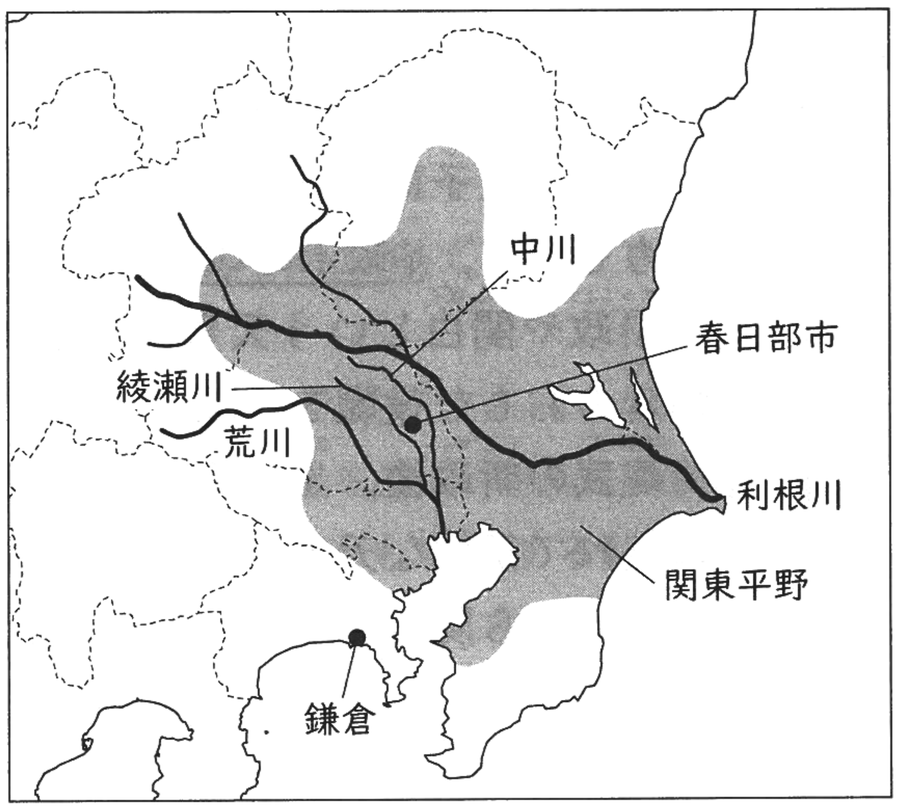


(1)　関東平野の台地では，都市の消費者向けに鮮度が求められる野菜や果物，牛乳，食肉などの生産が盛んです。このように大都市周辺で行われる園芸農業を，特に何といいますか。**ことば**で書きなさい。（４点）

(2)　右の図は，略地図中に示した鎌倉の２万５千分の１地形図です。地形図中に示した「大仏殿跡（だいぶつでんあと）」と「長谷駅（はせえき）」の間は，地形図上で約2.5cmあります。実際の距離は約何mですか。次のア～エのうちから最も適当なものを**一つ**選び，その記号を書きなさい。（３点）




（国土地理院電子地形図２万５千分の１から作成）

**ア**　約250m　　**イ**　約625m
**ウ**　約875m　　**エ**　約1250m

(3)　右の資料Ⅰは，2006年に完成した埼玉県春日部市（かすかべし）にある首都圏外郭放水路（しゅとけんがいかくほうすいろ）の調圧水槽（ちょうあつすいそう）の内部を撮影した写真と，それについて説明したものです。また，次の資料Ⅱ～資料Ⅳは，この地域を流れる中川（なかがわ）と綾瀬川（あやせがわ）に関連することについて示したものです。首都圏外郭放水路がつくられた**目的**を，資料Ⅱ～資料Ⅳを参考にして，簡単に書きなさい。（４点）

**資料Ⅰ**　首都圏外郭放水路（調圧水槽内部）



この施設は，内部に周辺の河川の水を流入させ，水の勢いを弱めて，より大きい河川へと放水するための巨大水槽である。59本の鉄筋コンクリートの柱が水槽全体を支えている。

**資料Ⅱ**　中川，綾瀬川流域の土地利用の変化

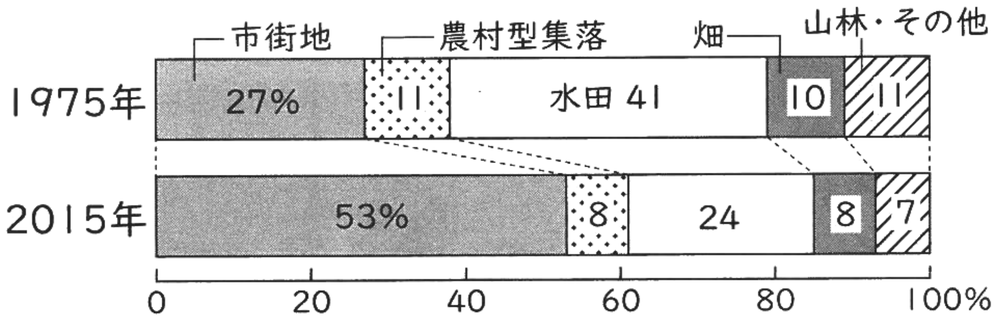


**資料Ⅲ**　中川，綾瀬川流域の最大48時間降水量

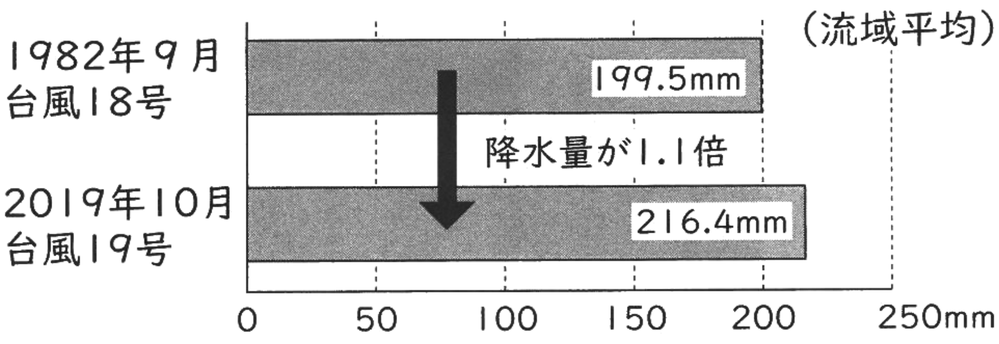


**資料Ⅳ**　中川，綾瀬川流域の浸水戸数（しんすいこすう）

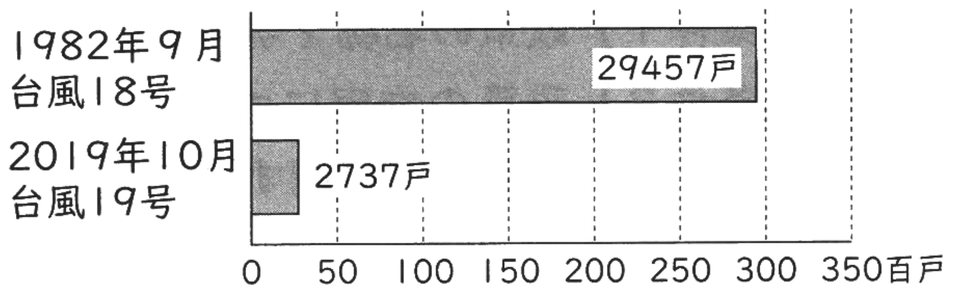


（資料Ⅰ～Ⅳはすべて江戸川河川事務所資料から作成）

**4**　基本的人権について，次の図を見て，あとの(1)～(4)の問いに答えなさい。

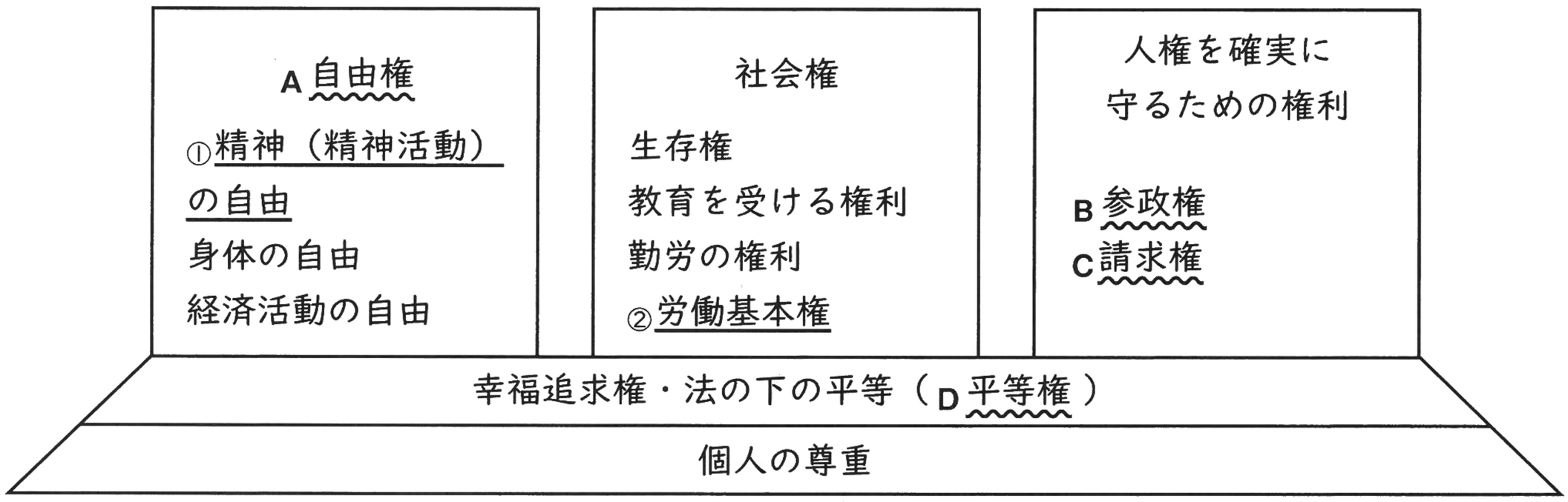


(1)　次の文章は，最高裁判所が判決の中で「法律が憲法に違反している」と判断した事例について述べたものです。図中の波線部Ａ～Ｄのうち，この判決に直接関連する根拠となった人権として，最も適当なものはどれですか。**一つ**選び，その記号を書きなさい。（３点）

> 民法第733条では，女性だけ離婚や夫との死別後の６か月間は再婚を禁止すると規定されていた。しかし最高裁判所はこの内容に違憲判決を出し，その結果，民法第733条の一部が改正された。

(2)　図中の下線部①について，次のア～エのうち，この権利について述べたものとして最も適当なものはどれですか。**一つ**選び，その記号を書きなさい。（３点）

**ア**　裁判官が出す令状がなければ，逮捕（たいほ）されたり，住居を捜索されたりしない権利。
**イ**　すべての子どもが小学校・中学校での教育を無償で受けることができる権利。
**ウ**　自分に合った職業を選んで働いたり，自由に住む場所を選んだりする権利。
**エ**　宗教を信仰するかしないか，どの宗教を信仰するかを自分で決める権利。

(3)　図中の下線部②について，労働基本権（労働三権）の一つとして，労働者には団結して労働組合をつくる団結権が認められています。憲法で保障されている権利に基づき，労働者は労働組合を結成して，何を行うことができますか。行うことの目的を明らかにし，「**使用者**（または**雇用者**）」の語句を用いて，簡単に**説明**しなさい。（４点）

(4)　基本的人権は本来，法律でも制限できない権利ですが，場合によっては人権と人権が対立することもあります。次の文章は，ある人権の対立の例について述べたものです。あとのア～エのうち，文章中の（　Ｘ　），（　Ｙ　）にあてはまることばの組み合わせとして最も適当なものはどれですか。**一つ**選び，その記号を書きなさい。（３点）

> ある有名タレントＯさんの私生活を掲載した図書が出版されることになった。図書には，Ｏさんの自宅の場所がわかるような写真が載っていたため，Ｏさんは「（　　Ｘ　　）の侵害である」として，図書の出版の差し止めを裁判所に求めた。これに対して，出版社は「図書の出版は（　　Ｙ　　）である」と反論した。

**ア**　Ｘ：プライバシーの権利　Ｙ：結社の自由　　**イ**　Ｘ：知る権利　Ｙ：結社の自由
**ウ**　Ｘ：プライバシーの権利　Ｙ：表現の自由　　**エ**　Ｘ：知る権利　Ｙ：表現の自由

**5**　次の略地図は，南アメリカ州を示したものです。これを見て，あとの(1)～(4)の問いに答えなさい。

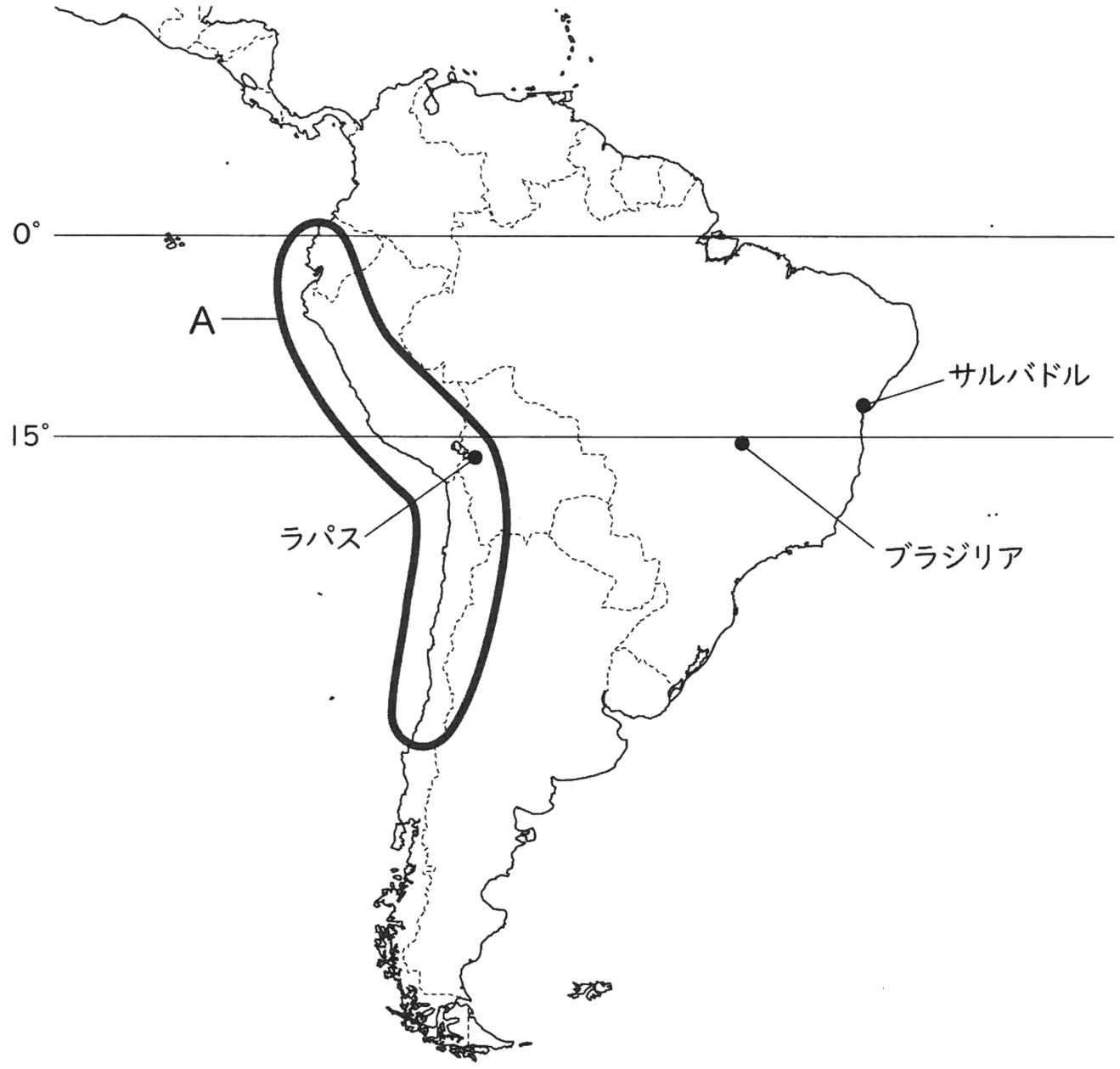


(1)　略地図中のＡについて，16世紀にスペインが進出するまでこの地域には高度な文明をもつ広大な国が栄えていました。その国を何といいますか。次のア～エのうちから正しいものを**一つ**選び，その記号を書きなさい。（３点）

**ア**　ローマ帝国　　**イ**　アステカ帝国
**ウ**　インカ帝国　　**エ**　イスラム帝国（イスラム世界）

(2)　右のグラフは，銅（銅鉱石）の生産量に占める国別割合を示したものです。次のア～エのうち，グラフ中の①，②にあてはまる国の組み合わせとして最も適当なものはどれですか。**一つ**選び，その記号を書きなさい。（３点）

**ア**　①：ペルー　　②：ブラジル
**イ**　①：ベネズエラ　②：エクアドル
**ウ**　①：ブラジル　　②：アルゼンチン
**エ**　①：チリ　　②：ペルー




（「世界国勢図会」2024/25年版から作成）

(3)　ブラジルでは，環境問題や資源・エネルギー問題を解決する取り組みの一環として，さとうきびを原料とした燃料の生産が盛んに行われています。さとうきびやとうもろこしなど，植物からできる物質のもつエネルギーを利用したアルコール燃料を何といいますか。**ことば**で書きなさい。（４点）

(4) 次のグラフは，略地図中に示したラパス，ブラジリア，サルバドルの月別平均気温の変化を示したものです。この３つの都市は近い緯度に位置しているにもかかわらず，気温には違いがみられます。ラパスの気温をほかの２都市と比べたときにみられる違いを，南アメリカ大陸の地形とラパスの位置にふれて，簡単に**説明**しなさい。（４点）

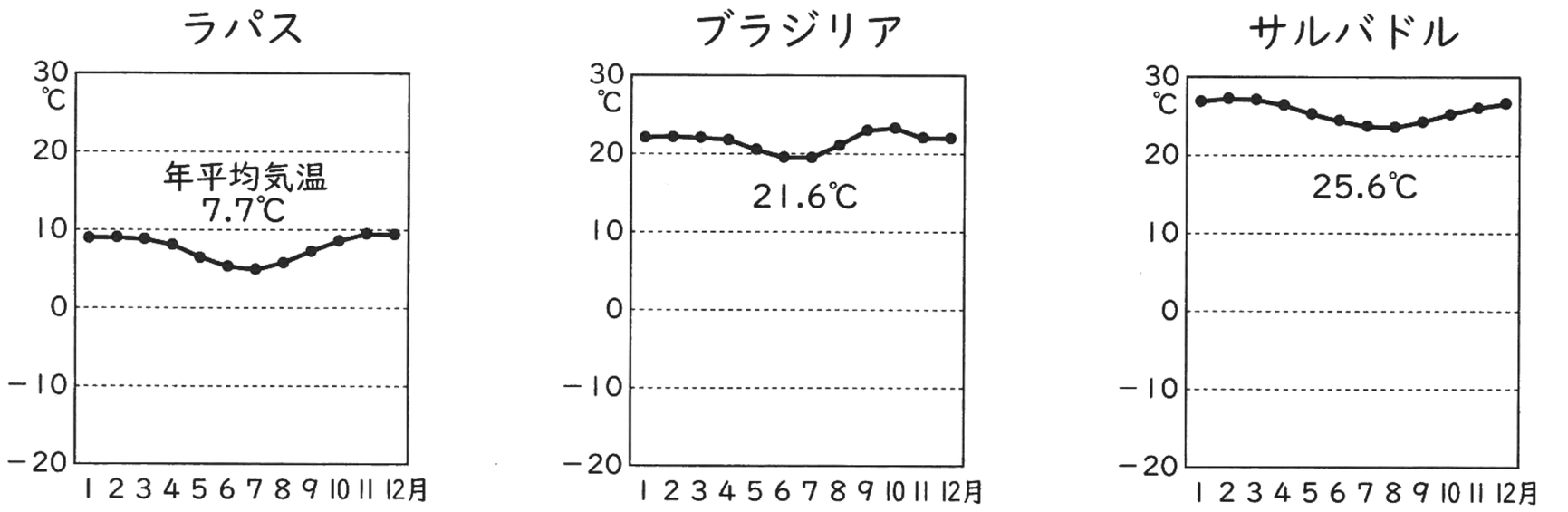


（「理科年表」2025年版から作成）

**6**　次の略年表は，20世紀に日本と世界で起こったできごとの一部を示したものです。これを見て，あとの(1)～(4)の問いに答えなさい。

| 西暦年 | 日本のできごと | 世界のできごと |
|---|---|---|
| 1929 | | 世界恐慌が起こる……①<br>第二次世界大戦が始まる |
| 1939 | X | |
| 1941 | 太平洋戦争が始まる | |
| 1945 | 広島・長崎に原爆が投下され，その後降伏する | ポツダム宣言が発表される |
| 1951 | サンフランシスコ平和条約を結ぶ…②<br>日米安全保障条約を結ぶ……③ | |
| 1973 | | 第四次中東戦争が起こる……④ |

(1)　略年表中の ⟷ で示した期間Xについて，次のA～Dは，この期間に起こったできごとです。A～Dをできごとが**起こった順**に並べかえ，その記号を書きなさい。（4点）

**A**　日本はフランス領インドシナ北部への侵攻を始め，次いで日独伊三国同盟（にちどくいさんごくどうめい）を結んだ。

**B**　国際連盟は日本軍に占領地からの撤兵（てっぺい）を求めたが，日本は応じず，国際連盟を脱退した。

**C**　満州（まんしゅう）に駐留していた日本軍（関東軍）が，柳条湖（りゅうじょうこ）で南満州鉄道の線路を爆破した。

**D**　陸軍の青年将校らが大臣などを殺傷して，一時，東京の中心部を占拠した。

(2)　略年表中の①について，次の文章は，このときのイギリスやフランスで採られた政策について述べたものです。この政策を何といいますか。**ことば**で書きなさい。（4点）

> 植民地の多いイギリスやフランスは，植民地との貿易を拡大・強化し，植民地以外の国からの輸入品には関税を高くした。このようにして関係の深い国や地域を囲いこんで，その中だけで経済を成り立たせる政策を採った。

(3)　略年表中の②，③について，次のア～エのうち，それぞれの条約で取り決められた内容の組み合わせとして最も適当なものはどれですか。**一つ**選び，その記号を書きなさい。（3点）

| | ② | ③ |
|---|---|---|
| **ア** | 日本と日本国民の完全な主権回復 | 非核三原則を国の方針とする |
| **イ** | 日本と日本国民の完全な主権回復 | 日本と東アジアの安全維持のため米軍基地を日本に残す |
| **ウ** | 国際連合への加盟 | 非核三原則を国の方針とする |
| **エ** | 国際連合への加盟 | 日本と東アジアの安全維持のため米軍基地を日本に残す |

(4)　略年表中の④について，右の資料は，このできごとの影響により当時の日本でみられた社会のようすを示した写真です。このとき，日本ではどのようなことが起こりましたか。略年表中の④に関連づけ，このときの社会状況を表す語句を用いて，簡単に**説明**しなさい。（4点）

**資料**　混み合うトイレットペーパー売り場



**7**　次の図は，日本の立法，行政，司法の抑制と均衡を示したものです。これを見て，あとの(1)～(4)の問いに答えなさい。

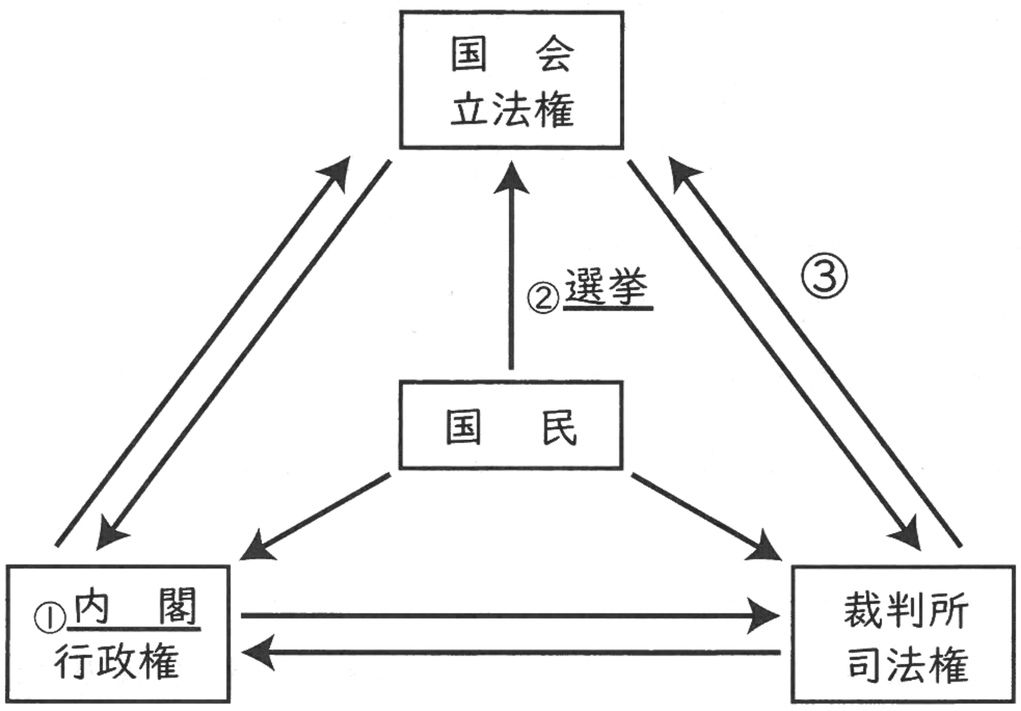


(1)　図のように，国の権力を立法，行政，司法の３つに分ける方法を何といいますか。**ことば**で書きなさい。（４点）

(2)　図中の下線部①について，ある一つの政党が国会で過半数の議席を占められない場合，二つ以上の政党が協力して過半数の議席を確保し，内閣をつくることがあります。これを何といいますか。次のア～エのうちから最もあてはまるものを**一つ**選び，その記号を書きなさい。（３点）

**ア**　野党　　**イ**　絶対王政　　**ウ**　連立政権　　**エ**　衆議院の優越

(3)　図中の下線部②について，次の資料は，2022年11月に公布された衆議院小選挙区の定数改正について示したものです。下の文章は，定数改正を行った目的について述べたものです。あとのア～エのうち，文章中の（　X　）～（　Z　）にあてはまることばの組み合わせとして最も適当なものはどれですか。**一つ**選び，その記号を書きなさい。（３点）

**資料**　衆議院小選挙区の定数改正（一部）

| 都道府県 | 改正前 → 改正後 | 都道府県 | 改正前 → 改正後 |
|---|---|---|---|
| 東京都 | 25 → 30 | 福島県 | 5 → 4 |
| 神奈川県 | 18 → 20 | 新潟県 | 6 → 5 |
| 埼玉県 | 15 → 16 | 和歌山県 | 3 → 2 |
| 愛知県 | 15 → 16 | 愛媛県 | 4 → 3 |

資料を見ると，都市部の選挙区の定数は（　X　）し，地方の選挙区の定数は（　Y　）している。これは，有権者がもつ票の価値が異なる（　Z　）問題の解消を目的としている。

**ア**　X：増加　Y：減少　Z：投票率の低下　　**イ**　X：増加　Y：減少　Z：一票の格差
**ウ**　X：減少　Y：増加　Z：投票率の低下　　**エ**　X：減少　Y：増加　Z：一票の格差

(4)　図中の③について，裁判所は国会が制定した法律が憲法に違反していないかどうかを審査する権限があります。これを何といいますか。**ことば**で書きなさい。（４点）

**8**　次の文章を読み，下の資料Ⅰ，資料Ⅱを見て，あとの(1)～(4)の問いに答えなさい。

かつて人々は，自分の物と相手が生産した物を交換することで生活を成り立たせていたが，しだいに貨幣が流通するようになった。日本では，平城京に設けられた市でさまざまな品物が売り買いされ，（　　X　　）などの貨幣が使われた。

現代では，買い物のときに現金のほかに使えるクレジットカードや電子マネーなどのキャッシュレス決済が普及している。①スマートフォンを使った支払い方法も幅広い世代が利用するようになり，支払いの利便性が向上した。その一方で，②消費トラブルも増加する傾向にある。私たち自身も消費者としての自覚を深め，自立した考えのもと，商品を選択することが大切である。

**資料Ⅰ**　貨幣（硬貨）の種類別製造枚数の推移

【単位：千枚】

| | 1円 | 5円 | 10円 | 50円 | 100円 | 500円 | 合計 |
|---|---|---|---|---|---|---|---|
| 1995年 | 1041874 | 351874 | 248874 | 111874 | 92874 | 182869 | 2030239 |
| 2005年 | 30029 | 16029 | 504029 | 10029 | 300029 | 345030 | 1205175 |
| 2015年 | 82004 | 105004 | 203004 | 47004 | 410004 | 143004 | 990024 |
| 2024年 | 511 | 511 | 109027 | 511 | 163827 | 336227 | 610614 |

（造幣局資料から作成）

**資料Ⅱ**　キャッシュレス決済額および比率の推移

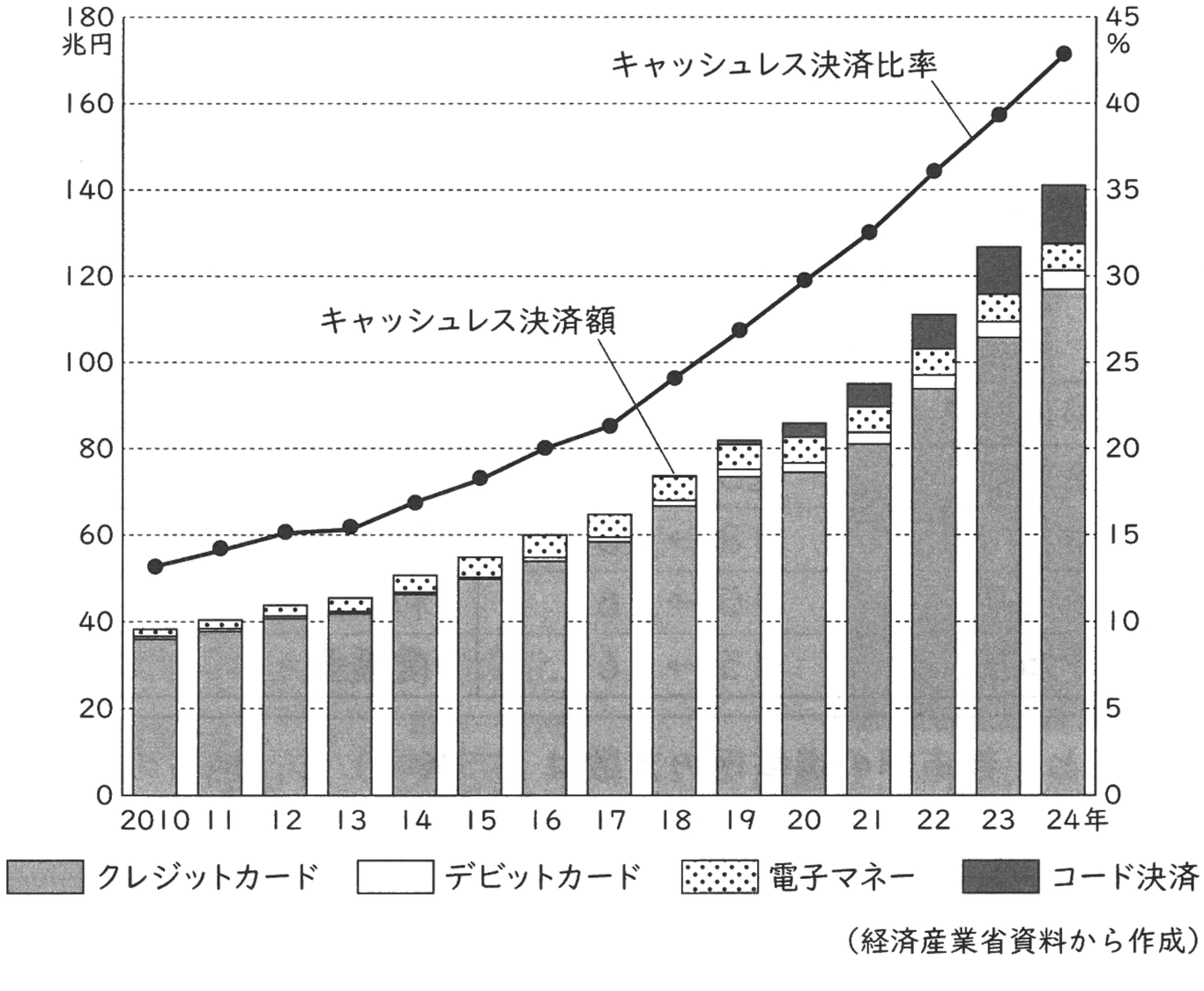


（経済産業省資料から作成）

(1) 次のア～エのうち，文章中の（　X　）にあてはまることばとして最も適当なものはどれですか。**一つ**選び，その記号を書きなさい。（３点）

**ア**　宋銭（そうせん）　　**イ**　明銭（みんせん）　　**ウ**　和同開珎（わどうかいちん）　　**エ**　寛永通宝（かんえいつうほう）

(2) 文章中の下線部①について，スマートフォンのような先端技術を研究・開発する企業が集中している，アメリカ合衆国のサンフランシスコ郊外にある地域を何といいますか。**ことば**で書きなさい。（３点）

(3) 次のア～エのうち，資料Ⅰ，資料Ⅱの読み取りとして最も適当なものはどれですか。**一つ**選び，その記号を書きなさい。（３点）

**ア**　2015年と比べて2024年の貨幣の製造枚数の合計は370000千枚以上減少している。

**イ**　キャッシュレス決済のうち，クレジットカードの利用額は年々減少している。

**ウ**　キャッシュレス決済について，比率は上昇しているが，額は減少している。

**エ**　2024年の貨幣の製造枚数は，すべての種類で1995年よりも減少している。

(4) 文章中の下線部②について，消費者が消費トラブルに巻きこまれた場合，消費者を支援するための制度の一つに「クーリング・オフ制度」があります。これは，どのような制度ですか。「**訪問販売など**」，「**契約**」の二つの語句を用いて，簡単に**説明**しなさい。（４点）